แบบทดสอบความพร้อมทางคณิตศาสตร์
(ชุดที่ 3)

คำชี้แจง

1. แบบทดสอบมีทั้งหมด 35 ข้อ ใช้เวลา 40 นาที
2. ผู้ปกครองอ่านคำสั่งให้ฟัง 2 ครั้ง โดยไม่ต้องอธิบายเพิ่มเติม

คำสั่ง

1. ต้องวางลูกกลมข้างขวา อีกกี่ลูกจึงจะหนักเท่ากันทั้งสองข้าง
2. ต้องเพิ่มลูกกลมข้างขวาอีกกี่ลูกจึงจะหนักเท่ากันทั้งสองข้าง
3. ต้องวางลูกกลมข้างขวาอีกกี่ลูกจึงจะหนักเท่ากันทั้งสองข้าง
4. ต้องเพิ่มลูกกลมข้างซ้ายอีกกี่ลูกจึงจะหนักเท่ากันทั้งสองข้าง
5. ต้องเพิ่มลูกกลมข้างซ้ายอีกกี่ลูกจึงจะหนักเท่ากันทั้งสองข้าง
6. ต้องหยิบลูกกลมข้างซ้ายออกกี่ลูกจึงจะหนักเท่ากันทั้งสองข้าง
7. ต้องหยิบลูกกลมข้างขวาออกกี่ลูกจึงจะหนักเท่ากันทั้งสองข้าง
8. ต้องหยิบลูกกลมข้างซ้ายออกกี่ลูกจึงจะหนักเท่ากันทั้งสองข้าง
9. ต้องหยิบลูกกลมจำนวนเท่ากับรูปในช่องใดมาแบ่งใส่ให้ทั้งสองข้างหนักเท่ากัน
10. ต้องหยิบลูกกลมจำนวนเท่ากับรูปในช่องใดมาแบ่งใส่ให้ทั้งสองข้างหนักเท่ากัน
11. ขีดกากบาททับรูปถ้วยที่มีจำนวนเท่ากับจานรองที่เหลืออยู่ในช่องแรก
12. ขีดกากบาททับรูปหมวกที่มีจำนวนเท่ากับคนที่ไม่ใส่หมวกที่เหลืออยู่ในช่องแรก
13. ขีดกากบาททับรูปส้อมที่มีจำนวนเท่ากับช้อนที่ขาดคู่ในช่องแรก
14. ขีดกากบาททับรูปดอกไม้ที่มีจำนวนเท่ากับแจกันที่ไม่ได้ใส่ดอกไม้ในช่องแรก

15. ขีดกากบาททับรูปกางเกงที่มีจำนวนเท่ากับเสื้อที่ยังไม่มีคู่กับกางเกงในช่องแรก
16. ขีดกากบาททับรูปสามเหลี่ยมที่มีจำนวนเท่ากับรูปสี่เหลี่ยมที่ยังไม่มีคู่กับสามเหลี่ยมในช่องแรก
17. ขีดกากบาททับรูปที่มีกบจำนวน 5 ตัว
18. ขีดกากบาททับรูปที่มีหนูจำนวน 6 ตัว
19. ขีดกากบาททับรูปที่มีมีดจำนวน 7 เล่ม
20. ขีดกากบาททับรูปที่มีใบไม้จำนวน 9 ใบ
21. ขีดกากบาททับรูปที่มีแหวนจำนวน 8 วง
22. ขีดกากบาททับรูปที่มีมังคุดจำนวน 12 ผล
23. ให้นักเรียนดูตัวเลขในช่องแรกแล้วพิจารณาตัวเลขในช่องถัดไปแล้วขีดเส้นทับตัวเลขที่เขียนเรียงกันเหมือนตัวเลขในช่องแรก

ข้อ 24 – 28 ให้นักเรียนทำด้วยตัวเองทีละข้อโดยขีดกากบาททับตัวเลขที่เขียนเรียงกันเหมือนตัวเลขในช่องแรก

ข้อ 29 – 35 ให้นักเรียนดูภาพข้างบนที่ให้มาไปใช้ตอบคำถาม

29. ขีดกากบาททับตัวเลขที่แสดงการรวมกันของช้อนกับหลอด
30. ขีดกากบาททับตัวเลขที่แสดงการรวมกันของช้อนกับแก้ว
31. ขีดกากบาททับตัวเลขที่แสดงการรวมกันของหลอดกับแก้ว
32. ขีดกากบาทจำนวนที่แสดงว่าหลอดมากกว่าช้อน
33. ขีดกากบาทจำนวนที่แสดงว่าแก้วมากกว่าช้อน
34. ขีดกากบาทจำนวนที่แสดงว่าแก้วมากกว่าหลอด
35. ขีดกากบาทจำนวนหลอดในแก้วใบที่ 1 รวมกับแก้วใบที่ 8 และแก้วใบที่ 9

1.

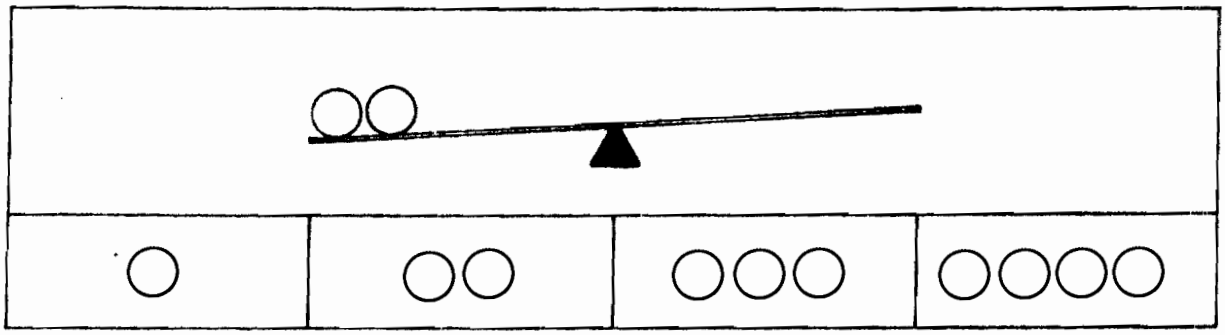

2.

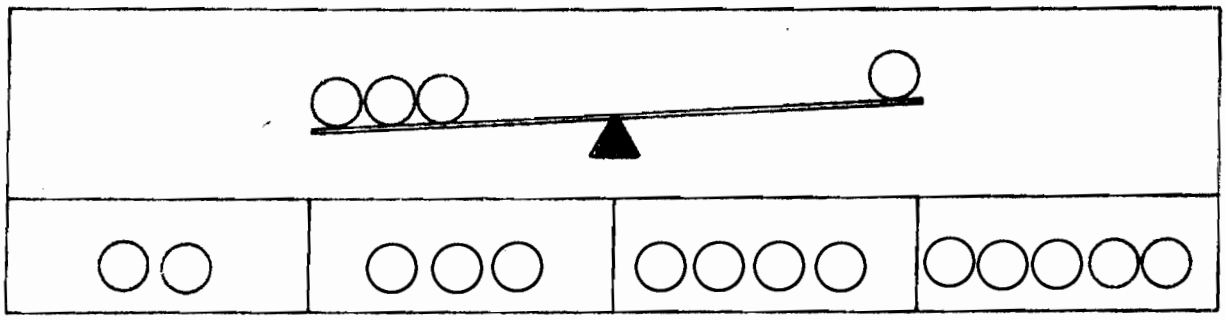

3.

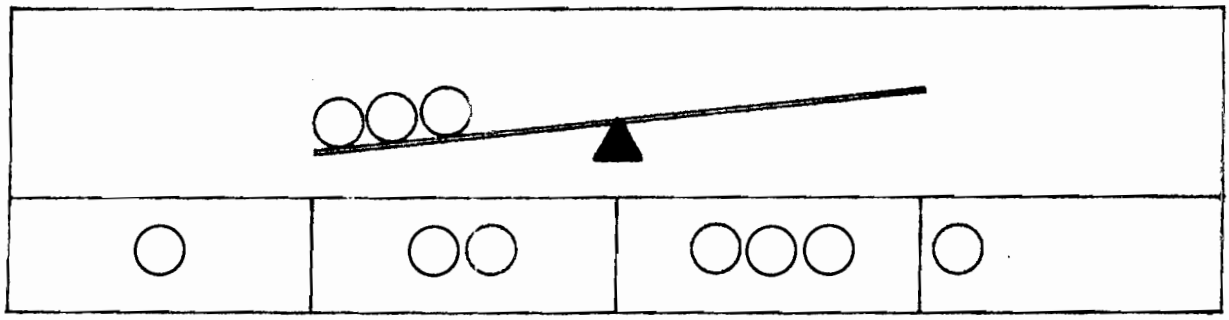

4.

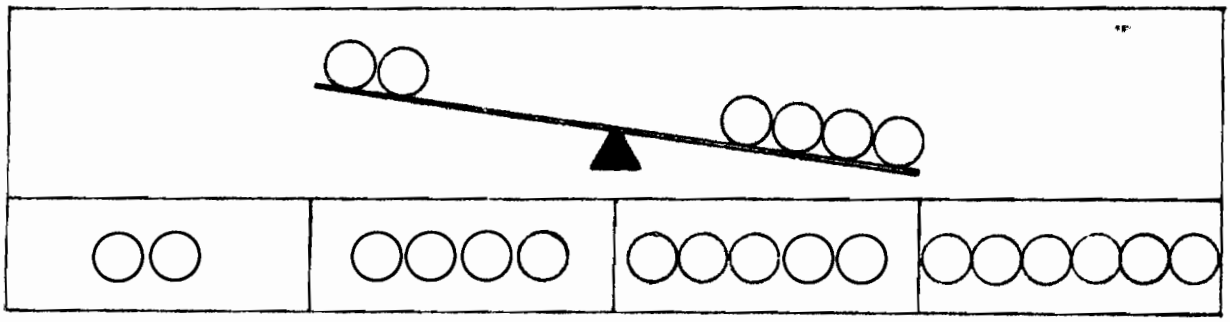

5.

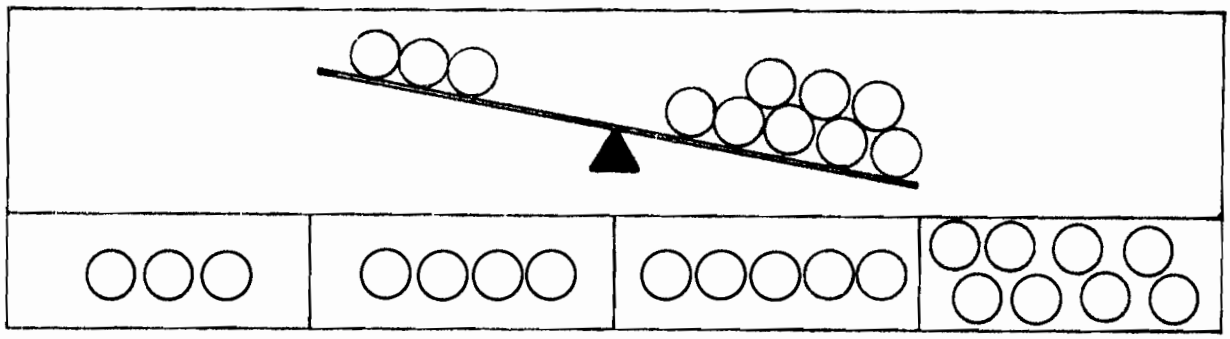

ชุดที่ 3

6.

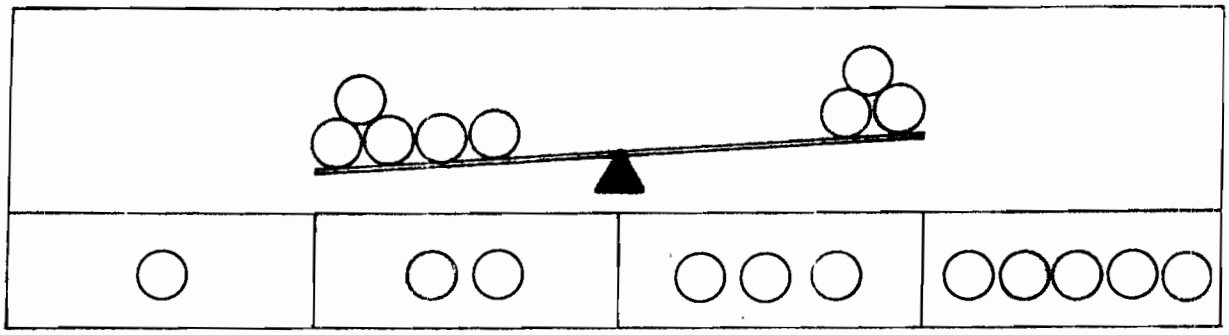

7.

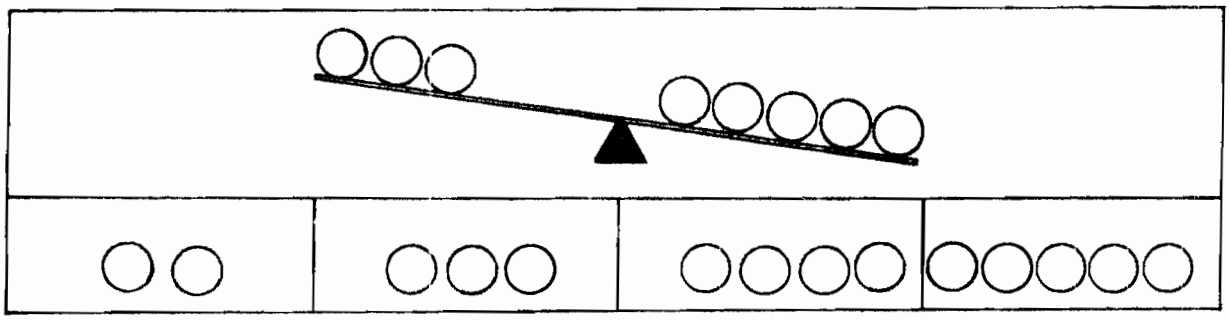

8.

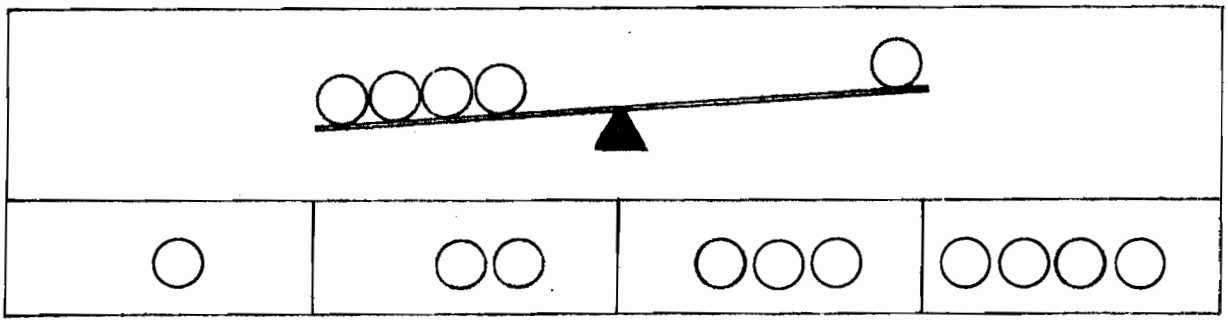

9.

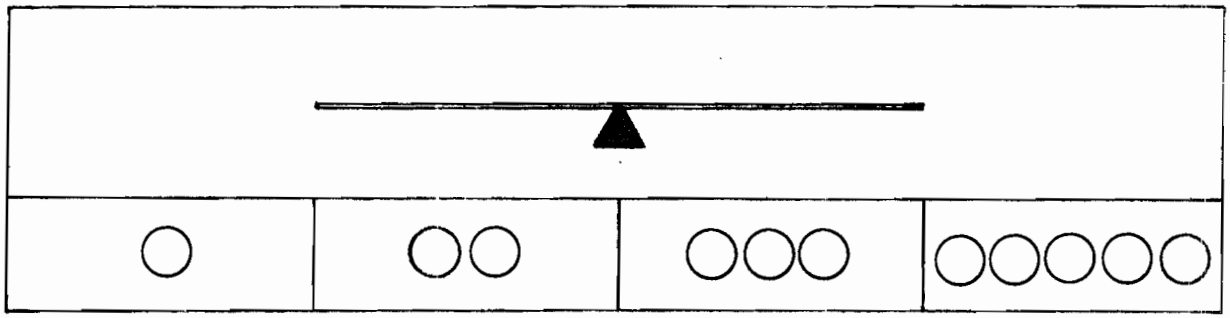

10.

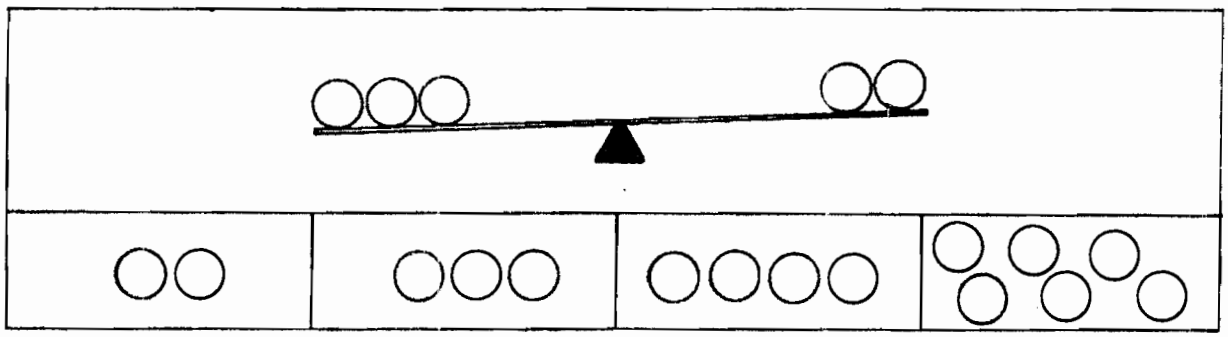

11.

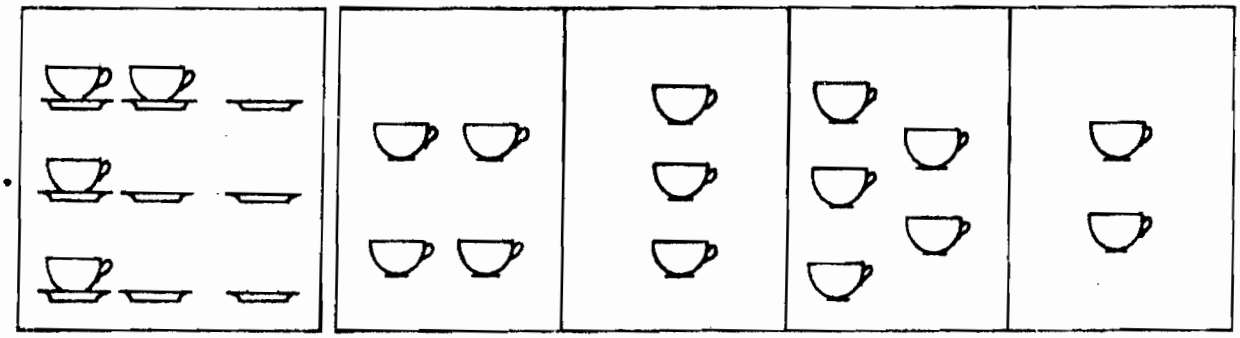

12.

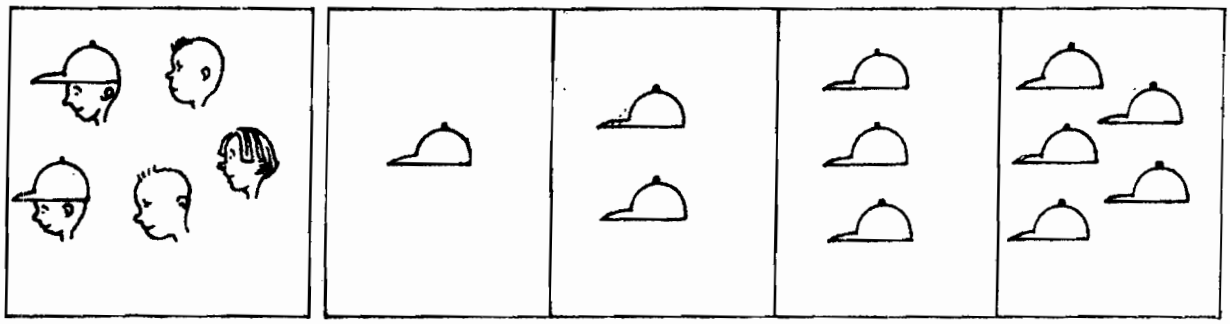

13.

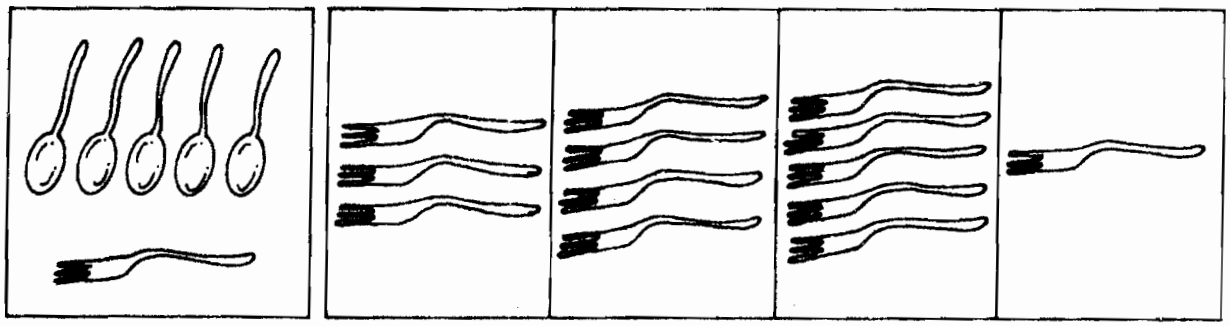

14.

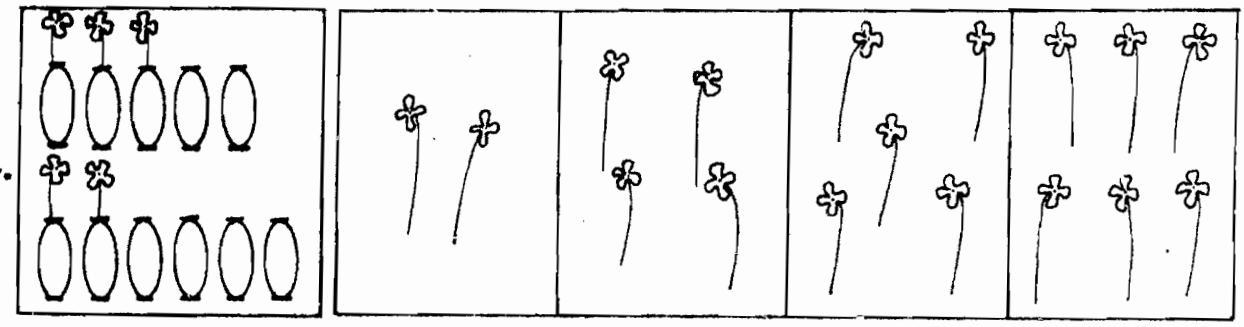

15.

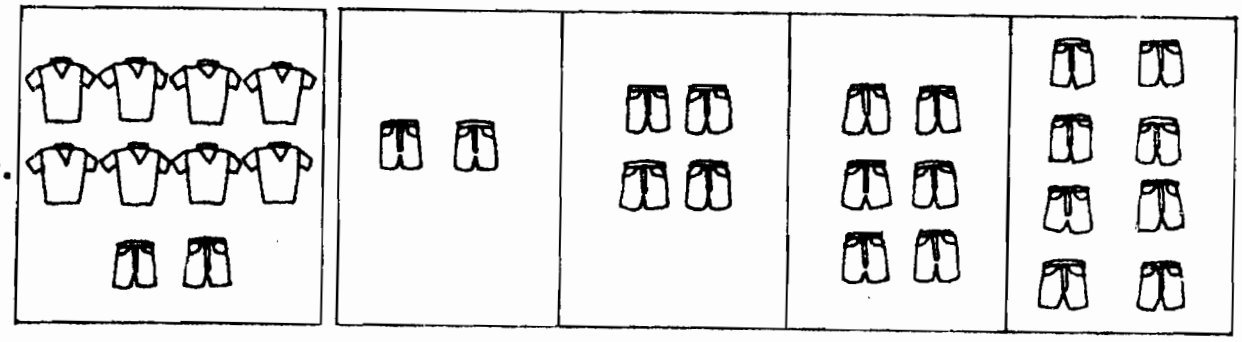

ชุดที่ 3

16.

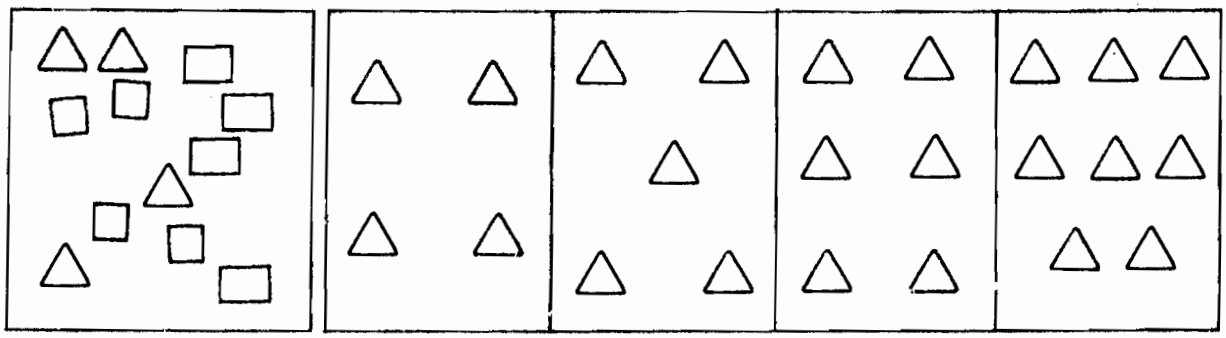

17.

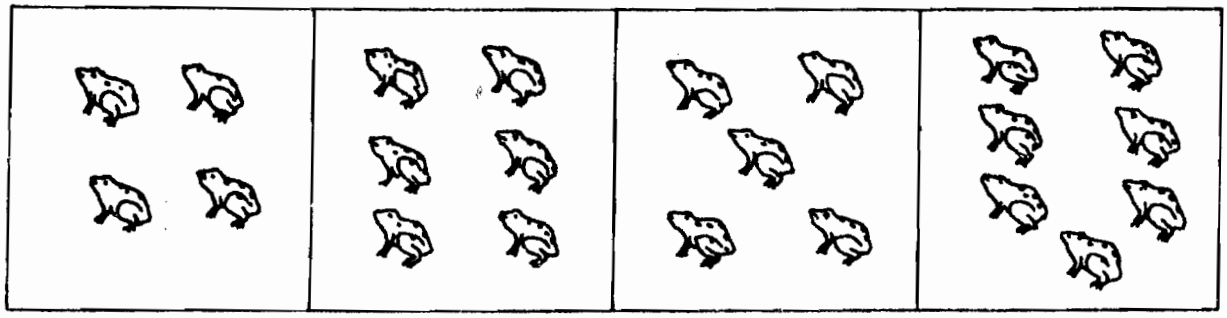

18.



19.

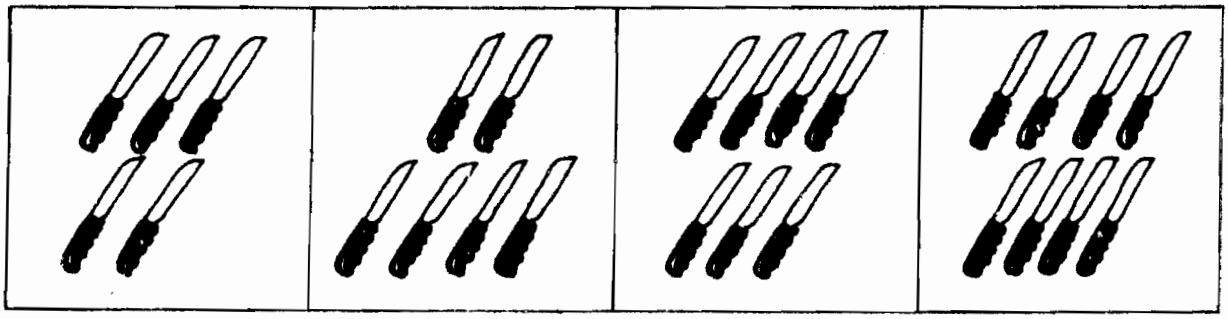

20.

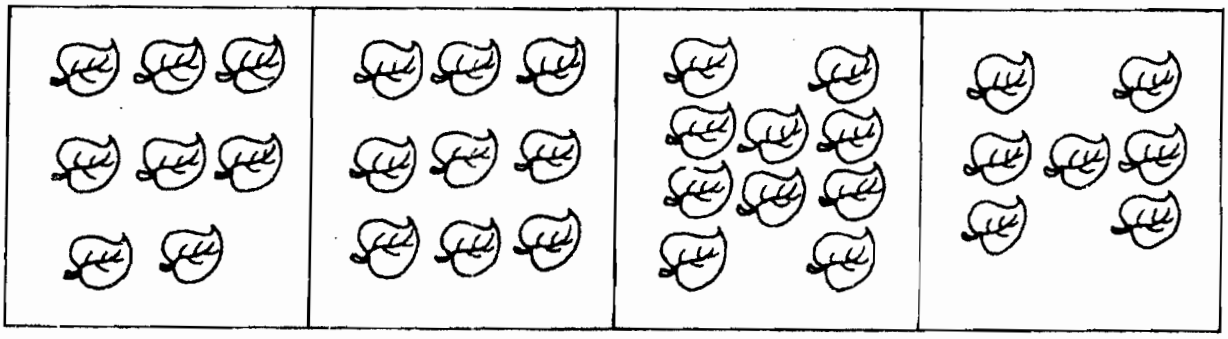

21.

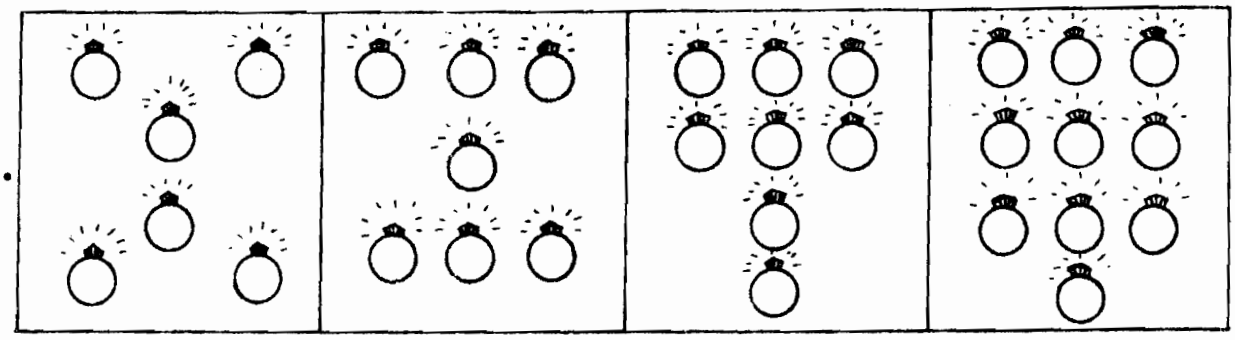

22.

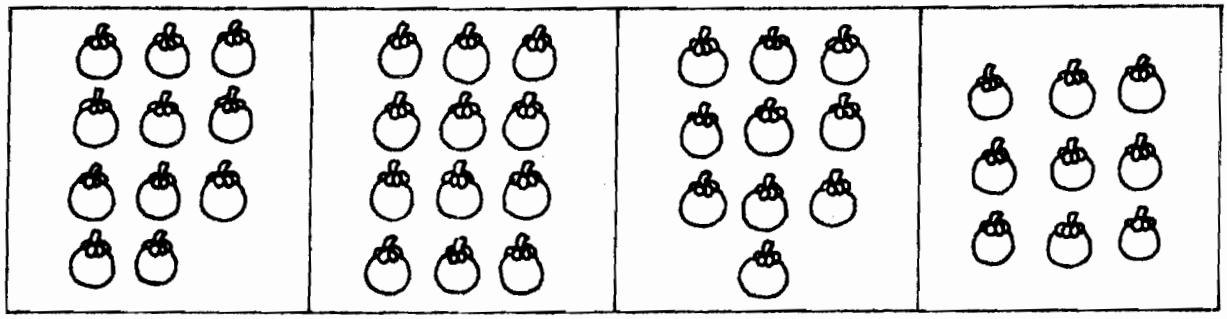

23.	123	132	123	231	312
24.	405	504	045	450	405
25.	6897	6789	6978	6897	8697
26.	๑๒๔	๑๒๔	๑๔๒	๒๑๔	๒๔๑
27.	๕๖๙	๕๙๖	๕๖๙	๖๕๙	๖๙๕
28.	๓๐ ๗๘	๓๐ ๘๗	๓๗ ๘๐	๓๘ ๗๐	๓๐ ๗๘

ชุดที่ 3



29.	5+3	5+5	5+8	8+8
30.	5+1	5+4	5+7	5+9
31.	5+8	8+8	8+9	9+9
32.	0	3	5	8
33.	4	5	8	9
34.	1	2	3	5
35.	1	2	3	4